II Международный межпредметный турнир
«Умники-разумники»

(для учащихся 1-2 классов)

Задания

Ответ должен быть представлен строго в виде ОДНОГО СЛОВА или ОДНОГО ЧИСЛА без кавычек, точек, орфографических ошибок в именительном падеже и единственном числе. Неверно записанные ответы не учитываются.

1. **Расшифруй слово**

В клетке над цветным квадратом впиши букву, которая обозначена этим цветом.

Прочитай слово. Запиши это слово в ответе.

2. **Достопримечательности стран**

Определи страну по достопримечательности.

Запиши название этой страны в ответе.

3. **Найди закономерность**

Найди закономерность и вставь пропущенное слово:

бабочка – бочка,
ступень – …

Запиши это слово в ответе.

4. **Где встаёт солнце**

Где встаёт солнце? Запиши номер выбранного варианта в ответе.

1. на юге
2. на востоке
3. на западе

5. **Календарь**

Сосчитай, в названии скольких месяцев 4 буквы? Запиши это число в ответе.

6. Загадочная птица

Какая птица зашифрована в ребусе? Запиши её название в ответе.

7. Идём в музей

На экскурсию в музей пришло 11 детей. Все, кроме 5, — мальчики.

Сколько девочек пришло на экскурсию в музей? Запиши это число в ответе.

8. Расшифруй слово

Расшифруй слово. Запиши это слово в ответе.

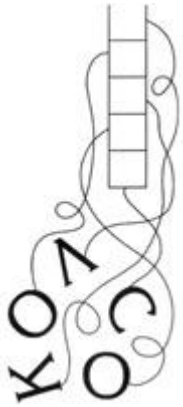

9. Прочитай слово

Догадайся, как прочитать слово. Запиши это слово в ответе.

4	С	Ю	Н	В
3	И	К	А	Г
2	Д	З	Р	Ш
1	Ф	П	О	Я
	А	Б	В	Г

А4 В1 Г4 В3

10. Собери постройку

Из какого набора деталей можно собрать эту постройку? Запиши номер выбранного варианта в ответе.

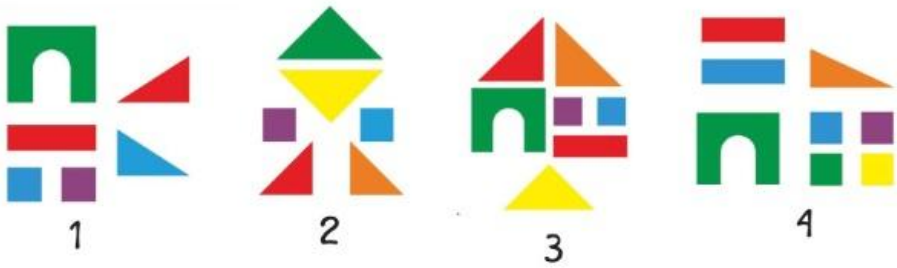

11. Любопытная девочка

Это маленькая и очень любопытная девочка. Именно любопытство приводит её к кроличьей норе, падая в которую она попадает в Страну чудес.

Догадайся, о какой сказочной героине идет речь? Запиши ее имя в ответе.

12. Домино

Посмотри на рисунок. Сосчитай количество точек на каждой стороне квадрата.

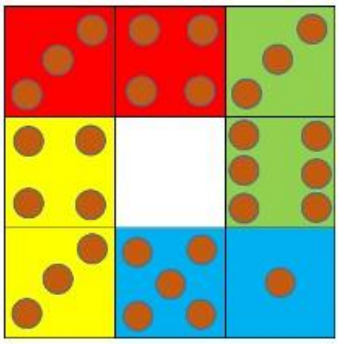

Какую из четырёх костей домино нужно повернуть так, чтобы сумма точек на каждой стороне квадрата была одинаковой?

1. красную
2. синюю
3. зелёную
4. жёлтую

Запиши номер выбранного варианта в ответе.